OMNIBUS MATEMATYCZNY
Klasa I
ZESTAW II

Zad. 1 (3 pkt.)

Zosia dodała wszystkie liczby parzyste od 2 do 8 (zapisz te liczby), a następnie odjęła od tej sumy liczbę 15. Jaką liczbę otrzymała?

Odpowiedź:

Zad. 2 (4 pkt.)

Pewnego wiosennego dnia słońce świeciło od godz. 10.00 do godziny 13.00.
Ile godzin świeciło słońce? Zapisz działanie i zaznacz właściwą odpowiedź.

Rozwiązanie:

Zaznacz godziny wschodu i zachodu słońca na zegarach.

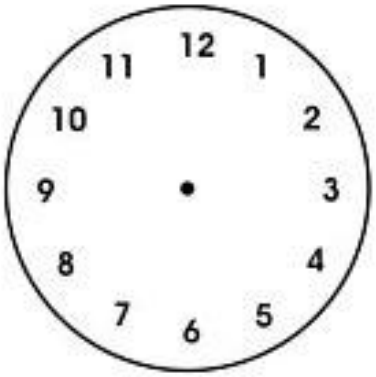

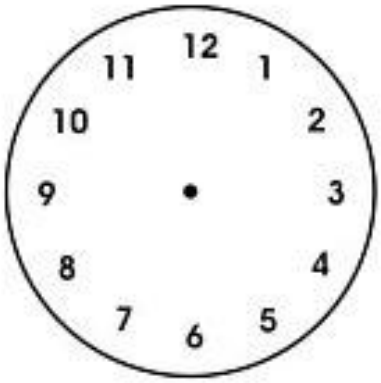

Odpowiedź:

Zad. 3 (5 pkt.)

Ile trójkątów znajduje się na rysunku?

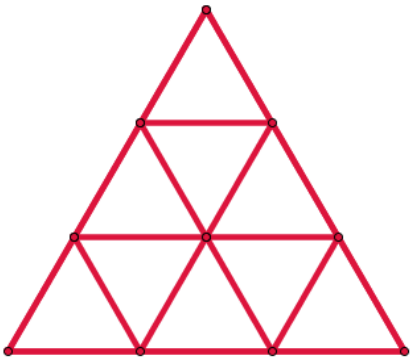

Odpowiedź:

**Pamiętaj, aby w wyznaczonych miejscach dokonywać obliczeń. Sama odpowiedź nie wystarczy, by osiągnąć maksymalną liczbę punktów.*

Powodzenia!

Termin nadsyłania prac: 13 marca 2020 r